INSTITUTO PARROQUIAL MONTE CRISTO

NIVEL PRIMARIO

CUADERNILLO DE INGRESO 2023

LENGUA Y LITERATURA

MATEMÁTICA

SEGUNDO GRADO

LENGUA Y LITERATURA



TEMA: Lectura y escritura de palabras y oraciones –Vocales y Consonantes.

PROPÓSITOS DE LAS ACTIVIDADES

- Leer palabras y oraciones.
- Escribir palabras y oraciones.
- Ordenar palabras para formar una oración.
- Diferenciar vocales de consonantes.
- Identificar las letras que forman el abecedario.
- Reconocer el orden de las letras del abecedario.
- Escribir al dictado.

- **ESCRIBE** TU NOMBRE COMPLETO:

_____

- **RODEA** TODAS LAS CONSONANTES QUE ENCUENTRES.
- **CONTÁ** CUÁNTAS VOCALES TIENE TU NOMBRE Y **COMPLETA:**

MI NOMBRE TIENE_____VOCALES

- **COMPLETA** LAS LETRAS QUE FALTAN.



- **COMPLETA** CON TUS PALABRAS FAVORITAS.

EL NOMBRE DE UN AMIGO QUE EMPIECE CON CONSONANTE:

EL NOMBRE DE UNA COMIDA QUE TERMINE CON VOCAL:

EL NOMBRE DE UN JUGUETE QUE TENGA TRES VOCALES:

EL NOMBRE DE UN COLOR QUE EMPIECE CON VOCAL:

- **UNE** CON FLECHAS CADA PALABRA CON SU DIBUJO.

LÁPIZ

REGLA

GOMA

SACAPUNTAS

- **FORMA** LAS PALABRAS Y ESCRIBILAS.

D E V E R

J O R O

A LL O R I M A

- **BUSCA** Y **PINTA** LOS NOMBRES DE ESTOS ÚTILES ESCOLARES EN EL RECUADRO. LUEGO , **ESCRIBE** CADA PALABRA DEBAJO DE SU DIBUJO.



- **ORDENA** LAS PALABRAS Y ESCRIBE LAS ORACIONES.

- **ESCRIBE** UNA ORACIÓN PARA CADA IMAGEN.

_____

_____

_____

_____

- **ESCRIBE** EL DICTADO DE ORACIONES. *(EL AUTO ROJO DE LUIS ESTÁ EN LA CALLE. LA MESA ES DE MADERA. MI TÍO SANTIAGO TIENE UNA CASA EN LA ISLA.)*

_____

_____

_____

_____

- **LEE** ATENTAMENTE LAS ADIVINANZAS.

- **ESCRIBE LAS RESPUESTAS DE LAS ADIVINANZAS.**

1_____

2_____

3_____

- **RODEA EL NOMBRE DE OTRO ANIMAL ESCONDIDO EN LA ÚLTIMA ADIVINANZA.**

- **INVENTA UNA ADIVINANZA PARA ESE ANIMAL. LUEGO ESCRIBE Y DIBUJA.**

- **LEE** LAS ORACIONES Y **UNE** CON LA IMAGEN QUE CORRESPONDA.

MILENA ESTÁ ESTUDIANDO EN LA MESA.

LOS NENES JUEGAN A LA RAYUELA.

RAMIRO DESAYUNA CEREAL.

MATEMÁTICA

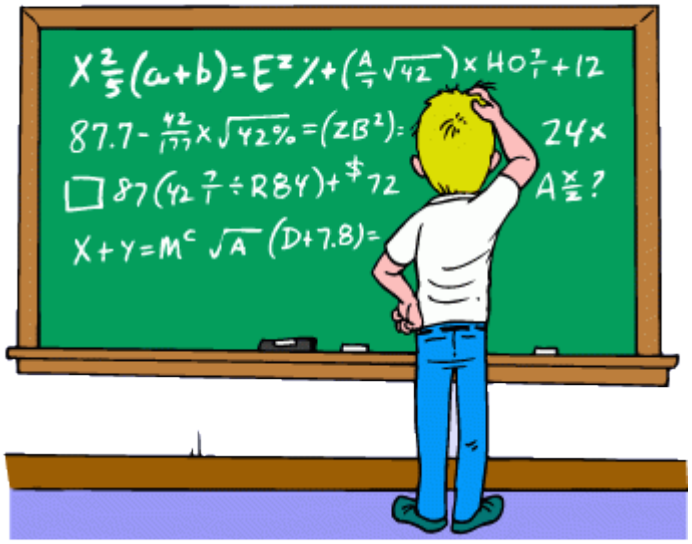

TEMA: Numeración hasta el 100. Situaciones problemáticas. Suma y resta sin dificultad.

PROPÓSITOS DE LAS ACTIVIDADES

Qué el alumno logre:

- Ordenar números hasta el 100.
- Reconocer y utilizar números hasta el 100.
- Completar series de 1 en 1, 2 en 2, 3 en 3 , 5 en 5 y 10 en 10.
- Resolver situaciones problemáticas.
- Resolver sumas y restas simples con o sin material concreto.

EN LA BIBLIOTECA DE CIENCIAS NATURALES ORDENAN LOS LIBROS NUMERÁNDOLOS.



FLAVIA SE LLEVÓ LOS LIBROS CON LOS NÚMEROS CINCUENTA Y SIETE Y SETENTA Y CINCO. MIRÁ EN LA BIBLIOTECA: ¿YA LOS DEVOLVIÓ?

BRUNO DEVOLVIÓ TRES LIBROS. MARCÁ SUS LUGARES EN LA BIBLIOTECA.

44	OCHENTA Y SEIS	79

LOS CHICOS DE 2.° NUMERAN LOS LIBROS.

1 COMPLETÁ LAS ETIQUETAS.

ROMINA ESCRIBIÓ LAS ETIQUETAS QUINCE, VEINTICINCO, CUARENTA Y SEIS Y TREINTA Y CINCO. ¿LO HIZO BIEN?

★ CORREGÍ LOS NÚMEROS EQUIVOCADOS.

COMPLETÁ LAS ETIQUETAS DE LOS LIBROS.

PINTÁ EL NÚMERO MAYOR EN CADA CASO.

41	14
35	53
52	25

ORDENÁ LOS LIBROS DE MENOR A MAYOR.



- **ESCRIBE** EL DICTADO DE NÚMEROS *(10 números del 0 al 100).*

_____

_____

- **ORDENA** DE MAYOR A MENOR LOS NÚMEROS DEL DICTADO.

_____

_____

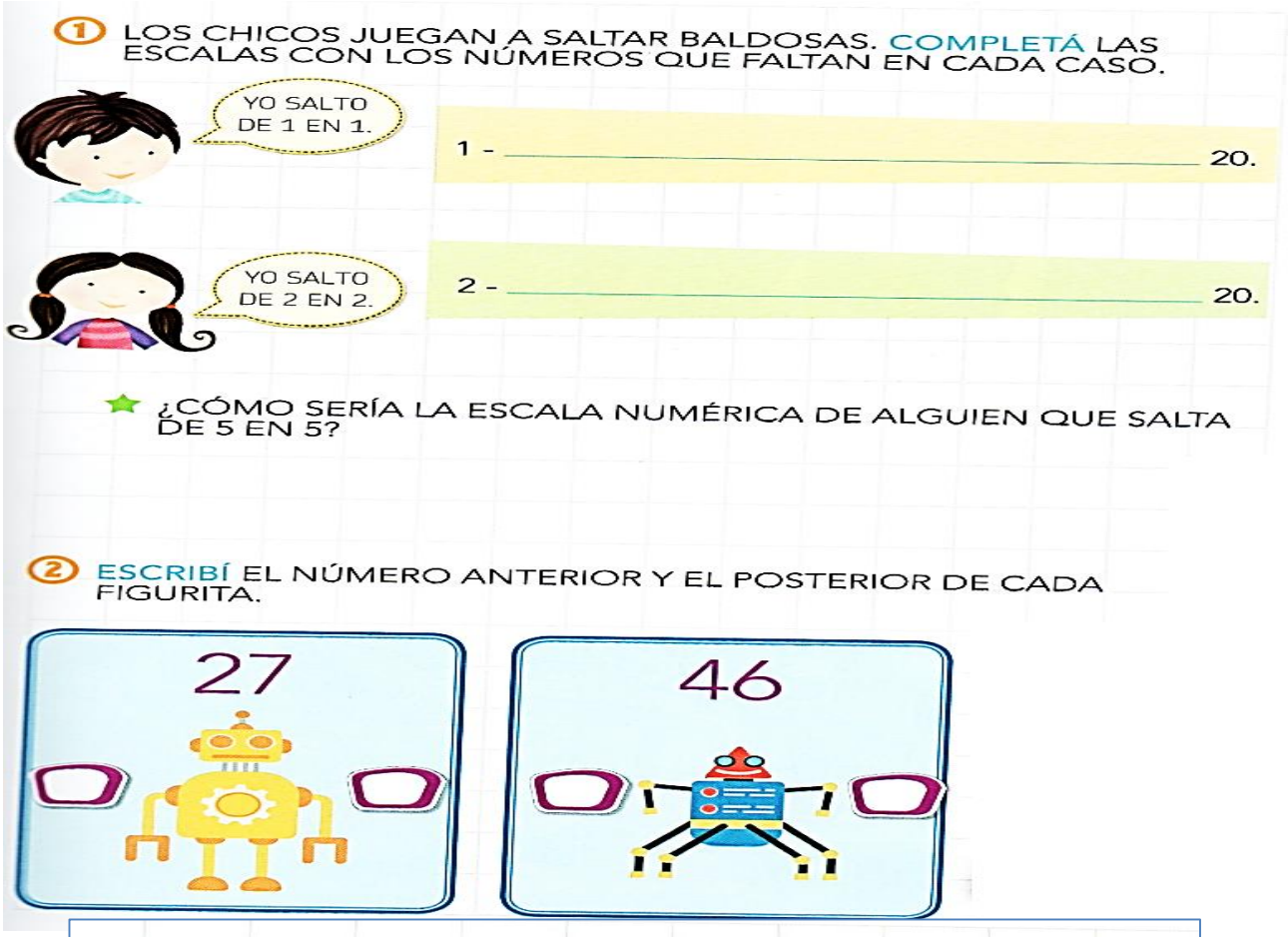

1 LOS CHICOS JUEGAN A SALTAR BALDOSAS. COMPLETÁ LAS ESCALAS CON LOS NÚMEROS QUE FALTAN EN CADA CASO.

YO SALTO DE 1 EN 1.

1 - _____ 20.

YO SALTO DE 2 EN 2.

2 - _____ 20.

¿CÓMO SERÍA LA ESCALA NUMÉRICA DE ALGUIEN QUE SALTA DE 5 EN 5?

2 ESCRIBÍ EL NÚMERO ANTERIOR Y EL POSTERIOR DE CADA FIGURITA.

27

46

COMPLETÁ LAS ESCALAS.

24 26

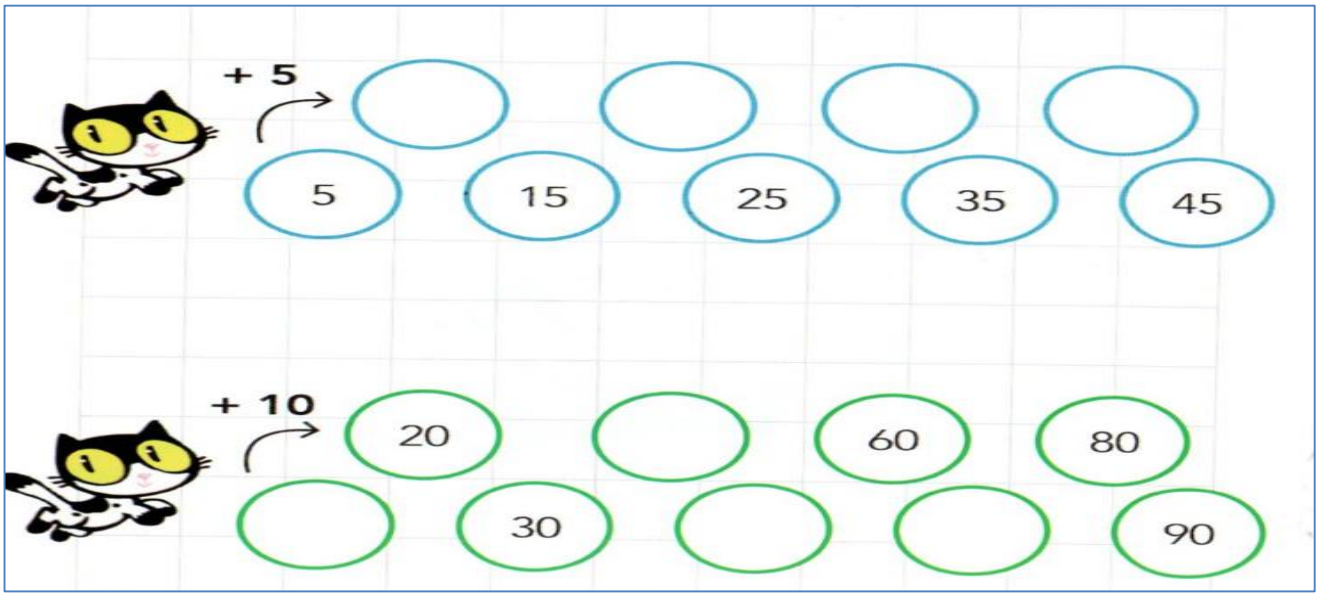

- **RESUELVE** LAS OPERACIONES. *(Con cuadro numérico, dibujo o material concreto).*

25 + 14 =

45 – 15 =

17 + 33 =

86 – 12 =

- **RESUELVE** LAS SITUACIONES PROBLEMÁTICAS.

MANUEL TIENE 38 CANICAS. SI JUGANDO CON SU AMIGO LUIS GANÓ 12 CANICAS MÁS ¿CUÁNTAS TIENE EN TOTAL?

AMALIA TIENE AHORRADOS $100. SI COMPRÓ UNA LAPICERA A $55 ¿CUÁNTO DINERO LE QUEDÓ?

CATA TIENE 12 CARAMELOS Y JULI LE REGALA 7 MÁS.
¿CUÁNTOS CARAMELOS TIENE EN TOTAL?
ASÍ LO RESOLVÍ:

RESPUESTA:

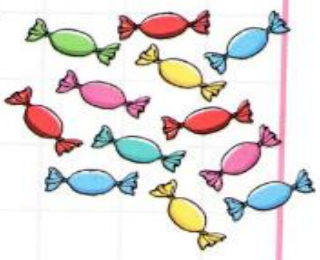

MATÍAS TENÍA 18 CHUPETINES. EN EL PRIMER RECREO LES DIO 10 A SUS AMIGOS. ¿CUÁNTOS CHUPETINES LE QUEDARON?
ASÍ LO RESOLVÍ:

RESPUESTA:

EMILIA TIENE 14 GALLETITAS DE CHOCOLATE Y 5 GALLETITAS DE VAINILLA. ¿CUÁNTAS GALLETITAS TIENE EN TOTAL?
ASÍ LO RESOLVÍ:

RESPUESTA:

SI EMILIA COMIÓ 8 GALLETITAS, ¿CUÁNTAS LE QUEDAN AHORA?
ASÍ LO RESOLVÍ:

RESPUESTA:

MARÍA TIENE 15 BOLITAS Y MARGA, 10. ¿CUÁNTAS BOLITAS TIENEN ENTRE LAS DOS?

LAS CHICAS TENÍAN EN TOTAL 50 FIGURITAS Y LES QUEDARON ESTAS.

10 FIGUS **10 FIGUS** **10 FIGUS**

¿ES VERDAD QUE YA PEGARON 40? ¿CÓMO LO SABÉS?